ՄԻԱՍՆԱԿԱՆ ՔՆՆՈՒԹՅՈՒՆ

2026

ՀՈՒՆԻՍ

ԱՇԽԱՐՀԱԳՐՈՒԹՅՈՒՆ

ԹԵՍՏ 2

Խմբի համարը

Նստարանի համարը

Հարգելի՛ դիմորդ

Խորհուրդ ենք տալիս առաջադրանքները կատարել ըստ հերթականության: Ուշադիր կարդացե՛ք յուրաքանչյուր առաջադրանք և պատասխանների առաջարկվող տարբերակները: Եթե Ձեզ չի հաջողվում որևէ առաջադրանքի անմիջապես պատասխանել, ժամանակը խնայելու նպատակով կարող եք այն բաց թողնել և դրան անդրադառնալ ավելի ուշ:

Ձեր առջև դրված թեստ-գրքույկի էջերի դատարկ մասերը ազատորեն կարող եք օգտագործել սևագրության համար: ***Թեստ-գրքույկը չի ստուգվում: Ստուգվում է միայն պատասխանների ձևաթուղթը:***

Առաջադրանքները կատարելուց հետո չմոռանաք պատասխանները ուշադիր և խնամքով նշել պատասխանների ձևաթղթում: Պատասխանների ձևաթղթի ճիշտ լրացումից է կախված Ձեր քննական միավորը:

Մաղթում ենք հաջողություն:

1 **Հասարակական աշխարհագրության ճյուղերից է.**

1) լանդշաֆտագիտությունը
2) երկրաձևաբանությունը
3) կլիմայագիտությունը
4) երկրագրությունը

2 **Երևանի հեռավորությունը Հյուսիսային բևեռից աստիճաններով կլինի.**

1) 50°
2) 76°
3) 80°
4) 96°

3 **Նկար 1.- ում տրված քարտեզը կազմելու համար ի՞նչ պրոյեկցիա է կիրառվել:**

1) կոնային
2) հասարակածային
3) գլանային
4) ազիմուտային

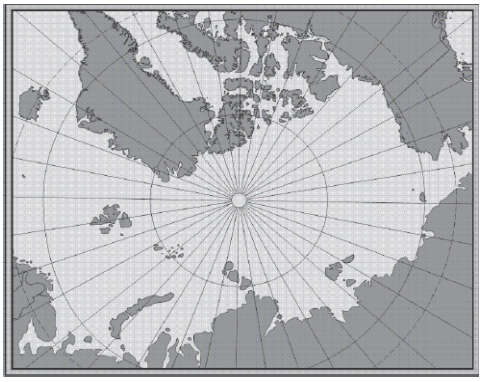

նկար 1.

4 **Նշվածներից ո՞րն է ժամային գոտիների առաջացման պատճառ:**

1) Երկրի օրական պտույտն իր առանցքի շուրջը
2) Երկրի առանցքի թեքությունն իր պտտման ուղեծրի հարթության նկատմամբ
3) Երկրի տարեկան պտույտն Արեգակի շուրջը
4) Երկրի վրա շարժվող մարմինների ուղղության շեղումը իրենց սկզբնական ուղղությունից

5 **Նշվածներից ո՞ր մեթոդն է կոնկրետ գիտական.**

1) համեմատական
2) վիճակագրական
3) քարտեզագրական
4) մաթեմատիկական

6 **Քարտեզում երկու կետերի հեռավորությունը 8 սմ է, իսկ իրականում՝ 48 կմ: Այդ քարտեզի մասշտաբը կլինի.**

1) 1: 60 000 000
2) 1: 60 000
3) 1: 600 000
4) 1: 6 000 000

7 **Ո՞ր դարաշրջանում է առաջացել Հայկական լեռնաշխարհը:**

1) Պրոտերոզոյան
2) Պալեոզոյան
3) Կայնոզոյան
4) Մեզոզոյան

8 **Ո՞ր պնդումն է *սխալ*.**

1) Ջրի ակուստիկ հատկության շնորհիվ այն իր միջով անցկացնում է ձայնի ալիքները:
2) Ջուրն իր ամեմամեծ խտությանը հասնում է +4˚C-ում:
3) Ջուրը, տարբեր ագրեգատային վիճակների անցնելիս, չի ունենում ծավալային փոփոխություններ:
4) Ջրի ֆիզիկական և քիմիական հատկությունները սերտորեն կապված են միմյանց հետ:

9 **Մթնոլորտում ո՞ր բարձրություններում է տարածվում օզոնի շերտը.**

1) 40 – 45 կմ
2) 25 - 30 կմ
3) 30 – 35 կմ
4) 35 – 40 կմ

10 **Ո՞ր պնդումն է *սխալ.***

1) Բնական զոնաների հերթափոխությունը լեռներում կոչվում է վերընթաց գոտիականություն։
2) Երկրի մակերևույթի հարթավայրային տարածքներում բնական զոնաները հիմնականում ձգվում են արևմուտքից արևելք ուղղությամբ։
3) Բարեխառն և արևադարձային հիմնական կլիմայական գոտիների միջև տարածվում է մերձարկտիկական կլիմայական գոտին։
4) Հասարակածային կլիմայական գոտում ամբողջ տարին իշխում են խոնավ ու տաք օդային զանգվածները։

11 **Ո՞ր օվկիանոսի տարածքի գրեթե կեսն է զբաղեցնում մայրցամաքային ծանծաղուտը.**

1) Խաղաղ
2) Հնդկական
3) Ատլանտյան
4) Հյուսիսային սառուցյալ

12 **Որքա՞ն կլինի արեգակնային ճառագայթների անկման անկյան մեծությունը հունիսի 22-ին հվ. լ. 50˚-ի վրա։**

1) 26,5˚
2) 63,5˚
3) 53,5˚
4) 16,5˚

13 **Բնութագրումով որոշել բնական զոնան.**

Այս բնական զոնան ունի լավ արտահայտված երկու սեզոն՝ խոնավ, տաք ամառներ, տաք և չոր ձմեռներ։ Այն տարածվում է բոլոր մայրցամաքներում, բացի Անտարկտիդայից։ Ո՞ր բնական զոնան է, նշել։

1) անապատ
2) տափաստան
3) սավաննա
4) տունդրա

14 **Ի՞նչ հողեր են տարածվում խոնավ հասարակածային անտառների գոնայում:**

1) պոդզոլային
2) կարմրագորշ
3) դարչնագույն
4) կարմրադեղին

15 **Ո՞ր պնդումն է *սխալ*.**

1) Անտարկտիկայում չկան գործող հրաբուխներ, և չեն լինում երկրաշարժեր:
2) Անտարկտիդայի հիմքում ընկած է Անտարկտիկական հնագույն պլատֆորմը:
3) Անտարկտիդայի արևմուտքում ձգվում են Անտարկտիկական Անդերը:
4) Անտարկտիդայի հզոր սառցադաշտերի տակ կան լեռնաշղթաներ, սարահարթեր, հսկայական գոգավորություններ և նույնիսկ իջվածքներ:

16 **Ո՞ր կղզեխումբն է գտնվում Հնդկական օվկիանոսում:**

1) Մասկարենյան
2) Ազորյան
3) Մարշալյան
4) Կանարյան

17 **Հյուսիսային Ամերիկայի ամենաբարձր և ամենացածր կետերի բարձրությունների տարբերությունը կազմում է.**

1) 7100 մ
2) 6279 մ
3) 6589 մ
4) 7000 մ

18 **Ընտրել Հարավային Ամերիկայի բնական զոնաների տեղական անվանումների և բնական զոնայի կամ այն ընդգրկող տարածքի համապատասխանությունների ճիշտ շարքը.**

ա. պարամոս	1. խոնավ հասարակածային անտառներ
բ. պամպա	2. բարձրալեռնային մարգագետինները Անդերի լեռնաշղթայում
գ. սելվաս	3. սավաննաները՝ Բրազիլական սարահարթում
դ. կամպոս	4. մերձարևադարձային տափաստանները Լա-Պլատայի դաշտավայրի հարավում

1) ա–2, բ–1, գ–4, դ–3
2) ա–2, բ–4, գ–1, դ–3
3) ա–3, բ–4, գ–1, դ–2
4) ա–3, բ–1, գ–4, դ–2

19 **Ո՞ր պնդումն է *սխալ*.**

1) Հյուսիսային Ամերիկայում չկան անապատներ և կիսաանապատներ:
2) Կենտրոնական Ամերիկայում, Կարիբյան ծովի կղզիներում տարածվում են խոնավ արևադարձային անտառներ և սավաններ:
3) Հյուսիսային Ամերիկայի տունդրայի զոնայում տիրապետող են մամուռներն ու քարաքոսները:
4) Կանադական կղզեխմբում ու Գրենլանդիայում առավելապես տարածվում է սառցային զոնան:

20 **Ատլանտյան օվկիանոս թափվող գետ է.**

1) Կոլումբիան
2) Մակենզին
3) Միսիսիպին
4) Կոլորադոն

21 **Լեռնաշղթա-լեռնազանգվածներից ո՞րն է *սխալ*.**

1) Հիմալայներ—Ջոմոլունգմա
2) Ատլաս—Թուբկալ
3) Անդեր—Ակոնկագուա
4) Ալպեր—Կոսցյուշկո

22 **Աֆրիկայի մերձարևադարձային մշտականաչ անտառների ու թփուտների բնական զոնային ո՞ր ծառն է առավել բնորոշ.**

1) խեժափիճի
2) կազուարիա
3) կակաոյի ծառ
4) խցանակաղնի

23 **Եվրասիայի բարեխառն կլիմայական գոտու վերաբերյալ ո՞ր պնդումն է ճիշտ.**

1) Ցամաքային կլիմայի մարզում կլիմայի ցամաքայնությունն արևմուտքից արևելք նվազում է:
2) Ամենափոքր տարածքը զբաղեցնում է բարեխառն ցամաքային կլիմայի մարզը:
3) Ամենամեծ տարածքը զբաղեցնում է բարեխառն մուսսոնային կլիմայի մարզը:
4) Ծովային կլիմայի մարզը բնութագրվում է մեղմ ձմեռով, զով ամառով:

24 **Ո՞ր երկիրը *չի* եղել ԽՍՀՄ–ի կազմում.**

1) Ղազախստանը
2) Լեհաստանը
3) Էստոնիան
4) Մոլդովան

25 **Ո՞ր մեգալոպոլիսը *չի* գտնվում ԱՄՆ-ում:**

1) Սան-Սան
2) Չիփիթս
3) Բոսվաշ
4) Տոկայդո

26 **Տրվածներից ո՞րը քաղաքական աշխարհագրության ուղղություններից *չէ:***

1) քաղաքական գեոէկոլոգիա
2) աշխարհաքաղաքականություն
3) մշակույթի աշխարհագրություն
4) ընտրությունների աշխարհագրություն

27 **Բնակչության թվի բնական շարժը միայն բնական ճանապարհով՝ ծնունդների ու մահերի տարբերության հաշվին կոչվում է.**

1) բնակչության բնական աճ
2) բնակչության մեխանիկական աճ
3) բնակչության միգրացիա
4) բնակչության խտություն

28 **Նշվածներից ո՞ր երկիրն է բազմազգ:**

1) Ճապոնիա
2) Հայաստան
3) Իտալիա
4) Ռուսաստան

29 **Համաշխարհային տնտեսության ո՞ր հատվածին է պատկանում շինարարությունը:**

1) առաջնային
2) երկրորդային
3) երրորդային
4) չորրորդային

30 **Բնութագրումով որոշել երկիրը.**

Այս ասիական պետությունն ունի բազմազգ բնակչություն: Բնակչության մեծ մասն ուղղափառ քրիստոնյաներ են: Արդյունաբերության մեջ առաջնային տեղը պատկանում է գյուղատնտեսական հումք մշակող ճյուղերին: Աճեցվող կարևորագույն մշակաբույսերն են թեյը և ցիտրուսային պտուղները: Մակերևույթը լեռնային է, հարուստ է ռեկրեացիոն ռեսուրսներով: Այս երկիրը ելք ունի դեպի Սև ծով:

1) Բուլղարիա
2) Հորդանան
3) Թուրքիա
4) Վրաստան

31 **Նշվածներից անասնապահության ո՞ր ճյուղով աշխարհում առաջատար չէ Իրանը.**

1) մարգարտագործությունը
2) ոչխարաբուծությունը
3) խոզաբուծությունը
4) ձկնորսությունը

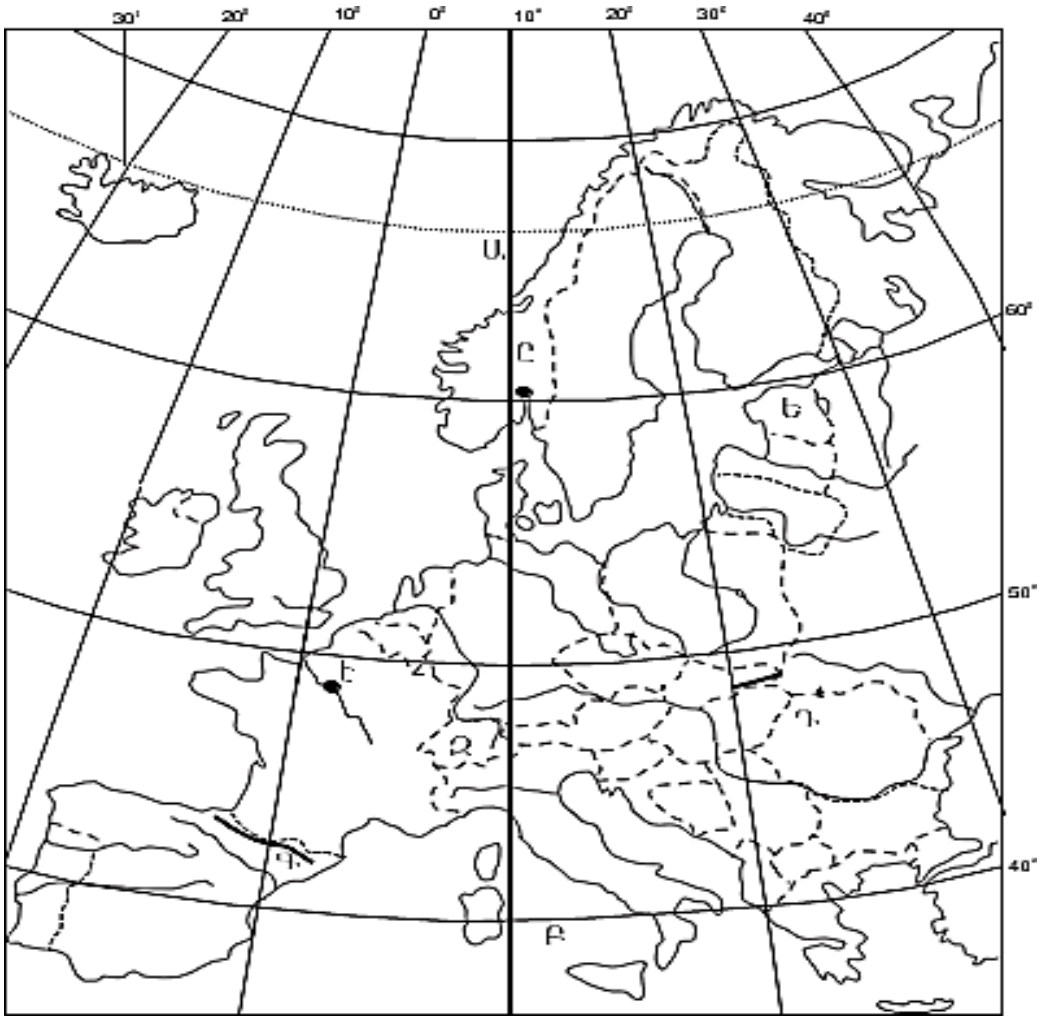

քարտեզ 1

32 **Ո՞ր պետությունն է քարտեզ 1– ում նշված Զ տառով.**

1) Շվեյցարիա
2) Բուլղարիա
3) Ռումինիա
4) Հունգարիա

33 **Ո՞ր մայրաքաղաքն է քարտեզ 1– ում նշված է տառով.**

1) Փարիզ
2) Լոնդոն
3) Հելսինկի
4) Ստոկհոլմ

34 **Կենտրոնական Ասիա տարածաշրջանի վերաբերյալ ո՞ր պնդումն է ճիշտ.**

1) Թեթև արդյունաբերությունը զարգանում է ներկրվող հումքի հաշվին:
2) Տրանսպորտային ցանցը խիտ է:
3) Բնակչության միջին խտությունը բարձր է:
4) Գյուղատնտեսության առաջատար ճյուղը բուսաբուծությունն է:

35 **Մշակաբույսերից որի՞ մշակությամբ է Չինաստանն աշխարհում գրավում առաջին տեղը.**

1) մանիոկի
2) բրնձի
3) կակաոյի
4) սուրճի

36 **Աֆրիկայի ո՞ր երկրները ելք *չունեն* դեպի ծով.**

1) Մոզամբիկ և Տանզանիա
2) Նիգեր և Ռուանդա
3) Թունիս և Մարոկկո
4) Գանա և Մավրիտանիա

37 **Ավստրալիայի վերաբերյալ ո՞ր պնդումն է ճիշտ.**

1) Ասվտրալիայի մակերևույթը հիմնականում հարթ է:
2) Աշխարհի ամենախիտ բնակեցված մայրցամաքներից է:
3) Արդյունաբերության առաջատար ճյուղը թեթև արդյունաբերությունն է:
4) Բնակչության թվով ամենախոշոր քաղաքը Կանբերան է:

38 **Ամերիկայի Միացյալ Նահանգներին (ԱՄՆ) են պատկանում.**

1) Շպիցբերգենի կղզիները
2) Ֆոլկլենդյան կղզիները
3) Սողոմոնի կղզիները
4) Հավայան կղզիները

39 **Լատինական Ամերիկայի վերաբերյալ ո՞ր պնդումն է *սխալ.***

1) Խոշորագույն նավահանգիստներից են Բուենոս Այրեսն ու Ռիո դե Ժանեյրոն:
2) Նավթի արդյունահանման ծավալով առաջատար երկիր է Չիլին:
3) Պարանա գետի վրա է կառուցված Իտայպու խոշորագույն ջրէկը:
4) Բրազիլիան աշխարհում առաջատար է սուրճի համաշխարհային համախառն արտադրանքով:

40 **Ռուսաստանի Դաշնության վերաբերյալ ո՞ր պնդումն է ճիշտ.**

1) Ոսկու արդյունաբերությունը հիմնականում կենտրոնացած է Կոլա թերակղզում:
2) Երկաթաքարի հիմնական պաշարները կուտակված են Կուրսկի մագնիսական անոմալիայում:
3) Էլեկտրաէներգիայի մեծ մասն արտադրվում է ատոմային էլեկտրակայաններում:
4) Նավթի հիմնական պաշարները տեղաբաշխված են Կուզբասի, Կանսկ–Աչինսկի ավազաններում:

41 **Հայկական լեռնաշխարհում գտնվող լճերից ո՞րը *չունի* հրաբխային ծագում.**

1) Սաղամո
2) Փարվանա
3) Խանչալի
4) Ուրմիա

42 **Նշվածներից ո՞ր գետն է թափվում Արաքսի մեջ:**

1) Թարթառ
2) Խաչենագետ
3) Կարկառ
4) Իշխանագետ

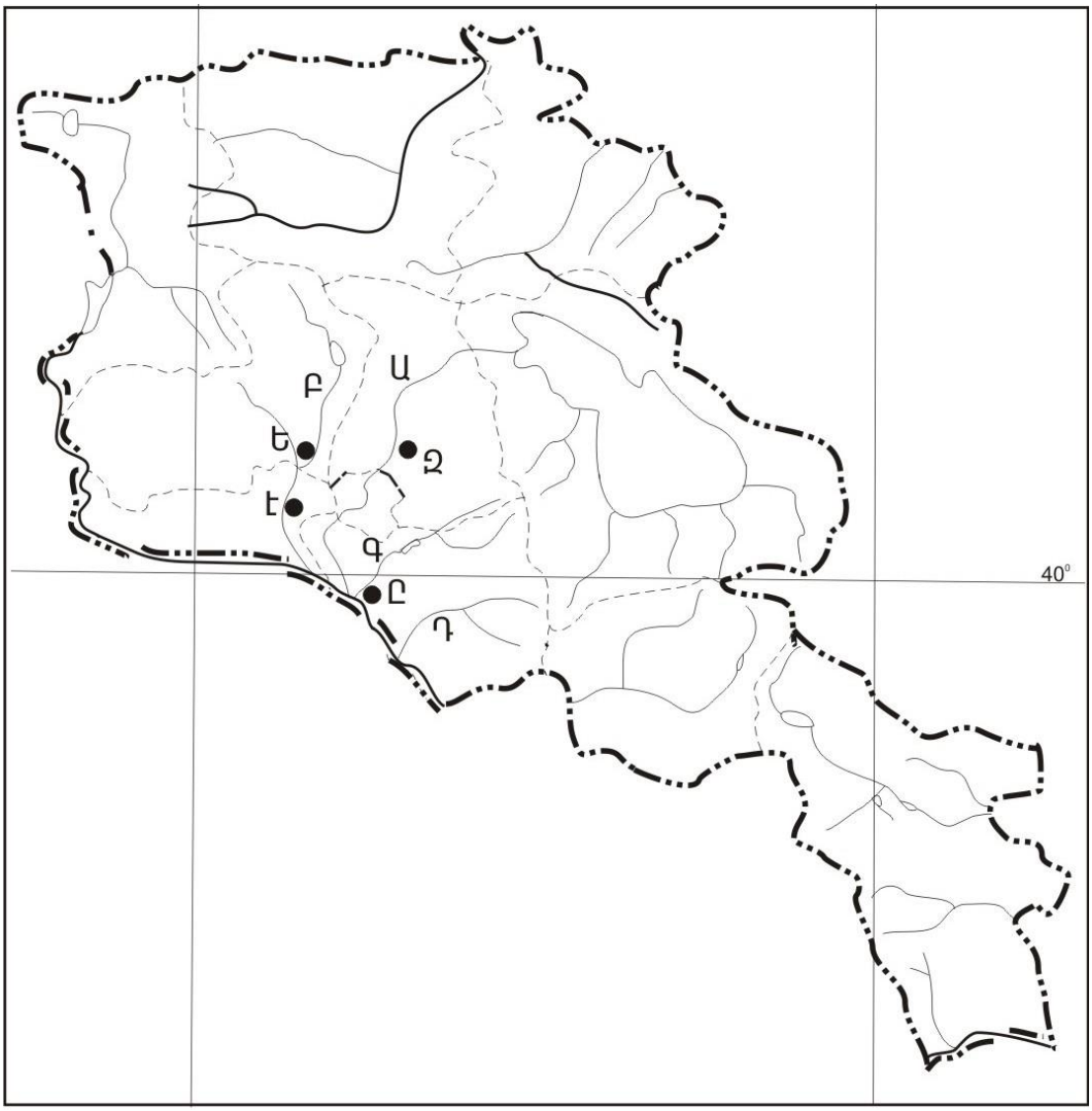

քարտեզ 2

43 **Քարտեզ 2–ում Կոտայքի մարզը ո՞ր տառով է նշված.**

1) Դ
2) Ա
3) Է
4) Գ

44 **Քարտեզ 2–ում Աշտարակ քաղաքը ո՞ր տառով է նշված.**

1) Ը
2) Բ
3) Զ
4) Ե

45 **ՀՀ բնակչության վերաբերյալ ո՞ր պնդումն է ճիշտ.**

1) Թվաքանակով երկրորդ ազգը ասորիներն են:
2) Եզդիները հիմնականում բնակվում են Սյունիքի մարզում:
3) Ռուսները հիմնականում բնակվում են Վայոց ձորի մարզում:
4) Ազգային կազմով աշխարհի առավել միատարր պետություններից է:

46 **ՀՀ–ում ուրբանիզացվածության ամենաբարձր մակարդակ ունեցող մարզն է.**

1) Շիրակը
2) Սյունիքը
3) Արարատը
4) Արմավիրը

47 **ՀՀ արդյունաբերության վերաբերյալ ո՞ր պնդումն է ճիշտ.**

1) Ալյումինի արտադրությունը բացառապես օգտագործում է տեղական հումք:
2) Մեքենաշինության զարգացումը պայմանավորված է սև մետաղների առկայությամբ:
3) Մետաղաձուլության մասնագիտացված ուղղություններից է մոլիբդենի արտադրությունը:
4) Քիմիական արդյունաբերության խոշոր կենտրոններ են Հրազդան և Գյումրի քաղաքները:

48 **Ո՞ր մարզում *չկա* երկաթուղային կայարան.**

1) Գեղարքունիք
2) Վայոց ձոր
3) Շիրակ
4) Լոռի

49 **Արագածոտնի մարզի վերաբերյալ ո՞ր պնդումն է *սխալ*.**

1) Հողային ծածկույթում գերակշռում են կիսաանապատային հողերը:
2) Ընդերքը հարուստ է հրաբխային ապարատեսակներով:
3) Տարածքի բարձրաչափական նիշերի մեծ տարբերության պատճառով կլիման բազմազան է:
4) Հիմնական ջրային զարկերակը Քասաղ գետն է՝ Գեղարոտ և Ամբերդ գլխավոր վտակներով:

50 **Կոտայքի մարզում գյուղատնտեսության ո՞ր ենթաճյուղը զարգացմամբ առաջատար չէ:**

1) ձվի արտադրություն
2) խոզաբուծություն
3) ոչխարաբուծություն
4) պտղաբուծություն

51 **Ո՞ր պնդումն է *սխալ*.**

1) Լուսասինթեզի ժամանակ բույսերը կլանում են թթվածին և արտանետում ածխաթթու գազ:
2) Անտառներն ունեն ջրապաշտպան, հողապաշտպան, դաշտապաշտպան, կլիմայաստեղծ նշանակություն:
3) Անտառների պահպանմանն ու վերականգնմանն ուղղված միջոցառում է հատուկ պահպանվող տարածքների ստեղծումը:
4) Բուսականությունը մասնակցում է նյութերի և էներգիայի համամոլորակային շրջապտույտին:

52 **Տրվածներից ո՞րը էներգիայի ստացման անսպառ աղբյուր չէ:**

1) երկրաջերմային
2) մակընթացային
3) արեգակնային
4) նավթային

53 **Հետևյալներից ո՞րը հողաբարելավման միջոցառում չէ:**

1) կլիմայավարժեցում
2) ոռոգում
3) քարամաքրում
4) անտառապատում

54 **Ո՞ր պնդումն է *սխալ*.**

1) Հողերի վատթարացման պատճառ է արոտավայրերի գերարածեցումը:
2) Արգելոցը հատուկ պահպանվող տարածք է, որտեղ ամբողջությամբ արգելված է մարդու արտադրական գործունեությունը:
3) Մարդու տնտեսական գործունեության պատճառով անտառների կրճատումը բնապահպանական համամոլորակային հիմնախնդիրներ չի առաջացնում:
4) Ջերմոցային էֆեկտի ուժեղացման հետևանքով բարձրանում է երկրագնդի միջին ջերմաստիճանը:

55 **Ո՞ր պնդումն է *սխալ*.**

1) Էկոլոգիական աղետալի շրջաններն աշխարհում աստիճանաբար ավելանում են:
2) Թույլ զարգացած երկրներին հատկապես բնորոշ է պարենային հիմնախնդիրը:
3) Համաշխարհային օվկիանոսը երկրագնդի մասշտաբով կլիմայի կարգավորիչ է:
4) Մարդկային զարգացման համաթվի հաշվարկման գլխավոր բաղադրիչ է տվյալ պետության քաղաքական իրավիճակը:

56 **Գրել այն գետերի համարները, որոնք հոսում են Եվրասիայում.**

1) Ենիսեյ
2) Նեղոս
3) Օբ
4) Շարի
5) Կոնգո
6) Լենա
7) Օրանժ
8) Հռենոս

57 **Գրել այն լեզվախմբերի համարները, որոնք մտնում են հնդեվրոպական լեզվաընտանիքի մեջ:**

1) գերմանական
2) ռոմանական
3) թյուրքական
4) դրավիդյան
5) հնդարիական
6) ուգրո-ֆիննական
7) քարթվելական
8) սլավոնական

58 **Գրել բուդդայականության ուղղությունների համարները.**

1) մահայա
2) ուղղափառություն
3) հինայա
4) բողոքականություն
5) սուննիականություն
6) շիականություն
7) լամայականություն
8) կաթոլիկություն

59 **Գրել այն երկրների համարները, որոնք առաջատար են թեյի մշակությամբ։**

1) Չինաստան
2) Կանադա
3) Նորվեգիա
4) Շրի Լանկա
5) Քենիա
6) Չադ
7) Մադագասկար
8) Դանիա

60 **Գրել ՀՀ այն քաղաքների համարները, որոնք գտնվում են Սևանա լճի ավազանում.**

1) Ջերմուկ
2) Գավառ
3) Մարտունի
4) Վարդենիս
5) Եղեգնաձոր
6) Սևան
7) Վեդի
8) Սիսիան

61 **Գրել այն տարածաշրջանների համարները, որոնք մասնագիտացված են խաղողագործության մեջ.**

1) Սևանի ավազան
2) Արարատյան դաշտ
3) Շիրակի դաշտ
4) Մասրիկի դաշտ
5) Կոտայքի սարավանդ
6) Սյունիքի բարձրավանդակ
7) Լոռվա սարահարթ
8) Արփայի հովիտ

62 **Տրված լճերի համարները դասավորել ըստ դրանց խորության աճման կարգի.**

1) Վանա
2) Տանգանիկա
3) Բայկալ

63 Տրված օվկիանոսները դասավորել մեծության աճման կարգով.

1) Խաղաղ
2) Հնդկական
3) Ատլանտյան
4) Հյուսիսայի սառուցյալ

64 Լոնդոնում ժամը 10-ն է, Այդ պահին ժամը քանի՞սը կլինի Երևանում (չորրորդ ժամային գոտի):

65 Որոշել Արեգակի ճառագայթների անկման անկյունը Սանկտ Պետերբուրգում (հս. լ. 60˚) սեպտեմբերի 23-ի կեսօրին:

(66-67) Քաղաքի բնակչության թիվը 90 000 է, բնակչության բացարձակ բնական աճը՝ 900 մարդ: Եկածների թիվը 8000 մարդ է, մեկնածների թիվը՝ 6000 մարդ.

66	Որոշել միգրացիայի մնացորդը:

67	Որոշել քաղաքի բնակչության թիվը 1 տարի հետո:

68	Երկրի նավթի պաշարները կազմում են 3,2 մլրդ տ, տարեկան հանույթը՝ 80 մլն տ: Որքա՞ն է ռեսուրսապահովվածությունը:

69 **Գերմանիայի վերաբերյալ տրված պնդումներից որո՞նք են ճիշտ, որո՞նք՝ սխալ.**

1) Արտահանման մեջ գերակշռում են բնական գազն ու նավթամթերքները:
2) Տնտեսությունը գտնվում է զարգացման հետինդուստրիալ փուլում:
3) ՀՆԱ-ի կառուցվածքում ամենափոքր բաժինը զբաղեցնում է սպասարկման ոլորտը:
4) Արդյունաբերության առաջատար ճյուղերից են մեքենաշինությունն ու քիմիական արդյունաբերությունը:
5) Գյուղատնտեսությունն աչքի է ընկնում մեքենայացման ու քիմիացման բարձր մակարդակով:
6) Գյուղատնտեսության առաջատար ճյուղը բուսաբուծությունն է:

70 **ՀՀ Գեղարքունիքի մարզի վերաբերյալ տրված պնդումներից որո՞նք են ճիշտ, որո՞նք՝ սխալ.**

1) Մարզի գյուղերում է ապրում բնակչության մեկ երրորդը:
2) Առկա են քրոմիտի և ոսկու պաշարներ:
3) Կլիման բարեխառն լեռնային է:
4) Տնտեսության առաջատար ճյուղը գյուղատնտեսությունն է:
5) Հողածածկույթում գերակշռում են լեռնաանտառային գորշ հողերը:
6) Անասնապահության առաջատար ճյուղն է խոզաբուծությունը: